ARBEITSBLATT:
DIE INNEREN GESCHLECHTSORGANE BEI MÄNNERN UND FRAUEN

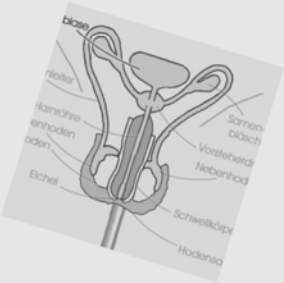



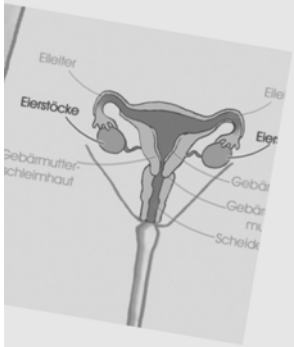

Aufgabe: Neben den äußeren Geschlechtsmerkmalen gibt es auch die inneren Geschlechtsorgane. Aber wie heißen diese und wozu dienen sie?
Nenne jeweils mindestens drei innere Geschlechtsorgane von Männern und Frauen und versuche ihre Funktion zu beschreiben!

Antworten:

→ Männer_____

_____

_____

_____

_____

_____

_____

_____

_____

→ Frauen_____

_____

_____

_____

_____

_____

_____

_____

_____